1. Wie heißen die Verbindungen mit den folgenden Formeln?

a)

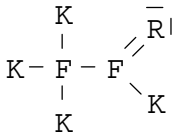

Ethanal

b)

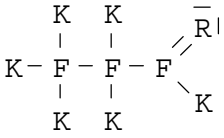

Propanal

2. Wie heißt die folgende Verbindung?

c)

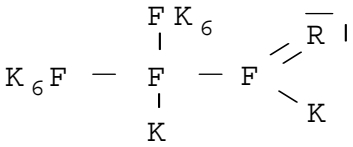

2-Methyl-propanal

3. Wie sieht die folgende Verbindung aus?

d) 2-Ethylpentanal

Dies ist kein IUPAC Name, da nicht die längste Kohlenstoffkette als Stammname verwendet wurde.

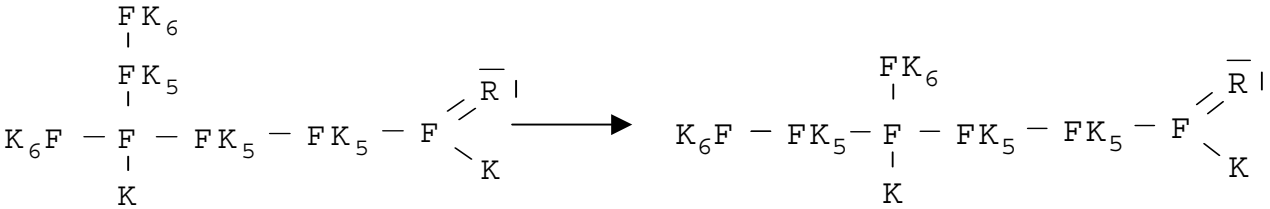

Richtig ist: 3-Methylhexanal